TRƯỜNG TIỂU HỌC .....

Họ và tên: .....

Lớp: 1 .....

Điểm	Lời phê của thầy cô

ĐỀ KIỂM TRA CUỐI HỌC KỲ I

Môn: Toán lớp 1 · Đề số 23

Năm học 2026-2027 · Thời gian làm bài: 40 phút

A. TRẮC NGHIỆM (4 điểm) *Khoanh vào chữ đặt trước câu trả lời đúng.*

Câu 1. *(0,5 điểm)* Số liền sau của số 6 là:

A. 7 **B.** 6 **C.** 5 **D.** 10

Câu 2. *(0,5 điểm)* Phép tính nào có kết quả bằng 4?

A. 0 + 4 **B.** 9 − 4 **C.** 7 − 5 **D.** 9 − 3

Câu 3. *(0,5 điểm)* Hình nào dưới đây là hình vuông?

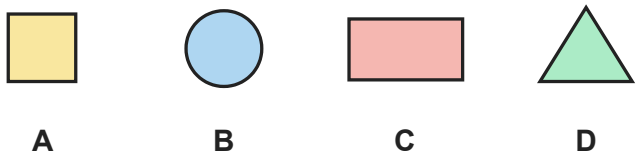

A. Hình A **B.** Hình B **C.** Hình C **D.** Hình D

Câu 4. *(0,5 điểm)* Trong hình dưới đây có bao nhiêu khối lập phương?

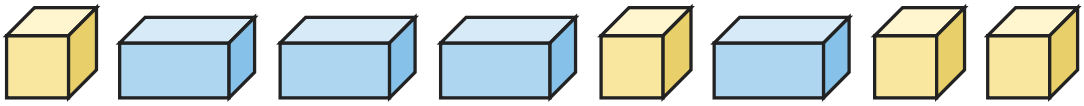

A. 3 **B.** 4 **C.** 5 **D.** 1

Câu 5. *(0,5 điểm)* Số thích hợp điền vào chỗ chấm: ..... + 7 = 10

A. 4 **B.** 3 **C.** 6 **D.** 0

Câu 6. *(0,5 điểm)* Kết quả của phép tính 9 − 9 là:

A. 1 **B.** 0 **C.** 3 **D.** 2

Câu 7. *(0,5 điểm)* Các số 7, 8, 1, 6 được sắp xếp theo thứ tự từ lớn đến bé là:

A. 7, 8, 1, 6 **B.** 1, 7, 6, 8 **C.** 7, 6, 1, 8 **D.** 8, 7, 6, 1

Câu 8. *(0,5 điểm)* Dấu thích hợp điền vào chỗ chấm: 9 ..... 5 + 4

A. > **B.** = **C.** <

B. TỰ LUẬN (6 điểm)

Câu 9. *(1 điểm)* Tính:

a) 9 − 4 − 3 = ……

b) 2 + 1 + 4 = ……

c) 3 + 5 + 2 = ……

d) 5 + 2 − 3 = ……

Câu 10. *(1 điểm)* Cho các số: 9, 6, 3, 7, 10.

a) Số lớn nhất là: ……

b) Số bé nhất là: ……

Câu 11. *(1 điểm)* Số?

a) …… + 2 = 8

b) 9 − …… = 6

c) 5 = 5 − ……

d) 2 = 6 − ……

Câu 12. *(1 điểm)* Cho các số: 4, 9, 6, 5.

a) Viết các số theo thứ tự từ bé đến lớn: …… ; …… ; …… ; ……

b) Viết các số theo thứ tự từ lớn đến bé: …… ; …… ; …… ; ……

Câu 13. *(1 điểm)* Số? Viết số thích hợp vào ô trống theo chiều mũi tên.



a) Ô thứ nhất: ……

b) Ô thứ hai: ……

Câu 14. *(1 điểm)* Có 10 quả bóng bay, các quả bị gạch chéo đã bay mất. Viết phép tính thích hợp với hình rồi trả lời.

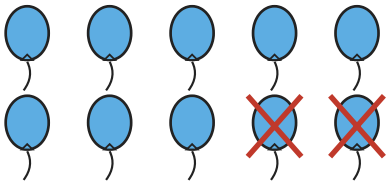

a) Phép tính: …… − …… = ……

b) Còn lại …… quả bóng bay.

HẾT

ĐÁP ÁN VÀ HƯỚNG DẪN CHẤM

Đề kiểm tra cuối học kỳ I Toán lớp 1 · Đề số 23

A. Trắc nghiệm (mỗi câu đúng 0,5 điểm)

Câu	1	2	3	4	5	6	7	8
Đáp án	A	A	A	B	B	B	D	B

B. Tự luận (mỗi câu 1 điểm)

Câu 9.

a) $9 - 4 - 3 = 2$

b) $2 + 1 + 4 = 7$

c) $3 + 5 + 2 = 10$

d) $5 + 2 - 3 = 4$

Câu 10.

a) Số lớn nhất là 10.

b) Số bé nhất là 3.

Câu 11.

a) $6 + 2 = 8$

b) $9 - 3 = 6$

c) $5 = 5 - 0$

d) $2 = 6 - 4$

Câu 12.

a) Từ bé đến lớn: 4, 5, 6, 9.

b) Từ lớn đến bé: 9, 6, 5, 4.

Câu 13.

$4 + 3 = 7$; $7 + 1 = 8$.

Câu 14.

a) $10 - 2 = 8$

b) Còn lại 8 quả bóng bay.