TRƯỜNG TIỂU HỌC ..... *Thứ ..... ngày ..... tháng ..... năm 20.....*

Họ và tên: .....

Lớp: 1 .....

PHIẾU ÔN TẬP HỌC KÌ I

MÔN TOÁN – KHỐI 1

PHIẾU SỐ 23

Thời gian làm bài: 30 phút

PHẦN 1. TRẮC NGHIỆM *(Khoanh vào chữ cái đặt trước câu trả lời đúng)*

Câu 1. Có bao nhiêu quả bóng bay trong hình?

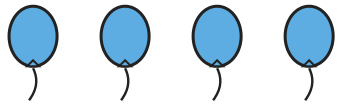

A. 1 **B.** 5 **C.** 6 **D.** 4

Câu 2. Dấu thích hợp điền vào chỗ chấm: 5 − 0 ……. 6

A. < **B.** = **C.** >

Câu 3. Hình nào dưới đây là hình tam giác?

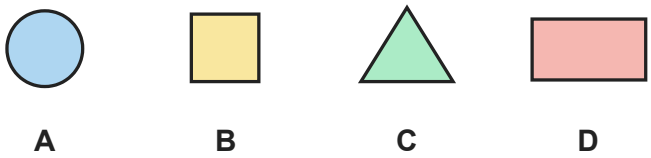

A. Hình A **B.** Hình B **C.** Hình C **D.** Hình D

Câu 4. Kết quả của phép tính 1 + 8 − 9 là:

A. 3 **B.** 1 **C.** 2 **D.** 0

Câu 5. Ba bạn xếp hàng: Minh đứng trước Ngọc, Ngọc đứng trước Huy. Bạn nào đứng ở giữa?

A. Minh **B.** Huy **C.** Bình **D.** Ngọc

Câu 6. Số thích hợp điền tiếp vào dãy số: 10, 8, 6, 4, ……. là:

A. 1 **B.** 2 **C.** 4 **D.** 0

PHẦN 2. TỰ LUẬN *(Học sinh trình bày lời giải)*

Bài 1. Điền dấu >, <, = thích hợp vào chỗ chấm:

a) 4 ……. 9

b) 1 ……. 10 − 9

c) 5 ……. 6 − 3

d) 5 + 3 ……. 10

Bài 2. Viết số thích hợp vào chỗ chấm:

a) 0, 2, 4, ……, ……, 10

b) 4, ……, 6, 7, ……, 9

Bài 3. Số?

a) 4 = 7 − ……

b) …… − 4 = 0

c) …… − 3 = 1

d) 5 − …… = 2

Bài 4. Viết số thích hợp vào chỗ chấm:

a) 7 gồm 3 và ……

b) 7 gồm …… và 6

c) 7 gồm 2 và ……

Bài 5. Quan sát hình rồi viết số thích hợp vào chỗ chấm:

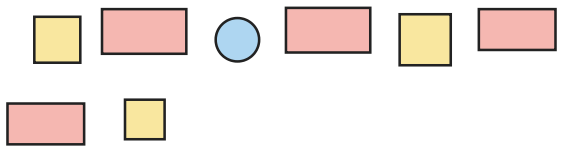

a) Có …… hình vuông.

b) Có …… hình tròn.

c) Có …… hình chữ nhật.

Bài 6. Có 9 quả bóng bay, các quả bị gạch chéo đã bay mất. Viết phép tính thích hợp với hình rồi trả lời.

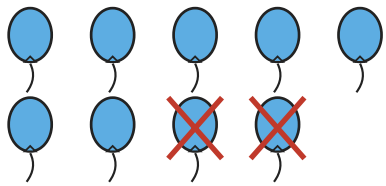

a) Phép tính: …… − …… = ……

b) Còn lại …… quả bóng bay.

HẾT

ĐÁP ÁN VÀ HƯỚNG DẪN CHẤM

Phiếu ôn tập học kì I Toán lớp 1 · Phiếu số 23

Phần 1. Trắc nghiệm

Câu	1	2	3	4	5	6
Đáp án	D	A	C	D	D	B

Phần 2. Tự luận

Bài 1.

a) $4 < 9$

b) $1 = 10 - 9$

c) $5 > 6 - 3$

d) $5 + 3 < 10$

Bài 2.

a) 0, 2, 4, 6, 8, 10

b) 4, 5, 6, 7, 8, 9

Bài 3.

a) $4 = 7 - 3$

b) $4 - 4 = 0$

c) $4 - 3 = 1$

d) $5 - 3 = 2$

Bài 4.

a) 7 gồm 3 và 4

b) 7 gồm 1 và 6

c) 7 gồm 2 và 5

Bài 5.

a) Có 3 hình vuông.

b) Có 1 hình tròn.

c) Có 4 hình chữ nhật.

Bài 6.

a) $9 - 2 = 7$

b) Còn lại 7 quả bóng bay.