TRƯỜNG TIỂU HỌC ..... *Thứ ..... ngày ..... tháng ..... năm 20.....*

Họ và tên: .....

Lớp: 1 .....

PHIẾU ÔN TẬP HỌC KÌ I
MÔN TOÁN – KHỐI 1
PHIẾU SỐ 27

Thời gian làm bài: 30 phút

PHẦN 1. TRẮC NGHIỆM *(Khoanh vào chữ cái đặt trước câu trả lời đúng)*

Câu 1. Các số 7, 2, 1, 4 được sắp xếp theo thứ tự từ lớn đến bé là:

A. 2, 7, 1, 4 **B.** 2, 1, 4, 7 **C.** 4, 2, 1, 7 **D.** 7, 4, 2, 1

Câu 2. Kết quả của phép tính 0 + 5 là:

A. 4 **B.** 3 **C.** 2 **D.** 5

Câu 3. Hình nào dưới đây là hình tam giác?

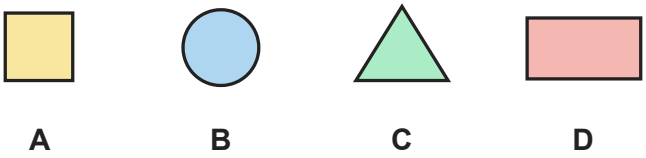

A. Hình A **B.** Hình B **C.** Hình C **D.** Hình D

Câu 4. Dấu thích hợp điền vào chỗ chấm: 9 + 1 8

A. > **B.** < **C.** =

Câu 5. Trong hình dưới đây có bao nhiêu khối lập phương?

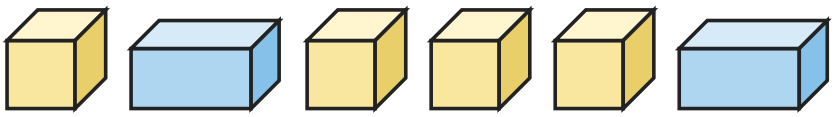

A. 4 **B.** 1 **C.** 3 **D.** 5

Câu 6. Số 10 gồm 6 và mấy?

A. 1 **B.** 4 **C.** 3 **D.** 7

PHẦN 2. TỰ LUẬN *(Học sinh trình bày lời giải)*

Bài 1. Điền dấu >, <, = thích hợp vào chỗ chấm:

a) 4 6

b) 10 ..... 5 + 5

c) 0 ..... 1 − 1

d) 4 + 2 6

Bài 2. Số? Mỗi ngôi nhà có số trên mái bằng tổng hai số ở hai ô bên dưới.

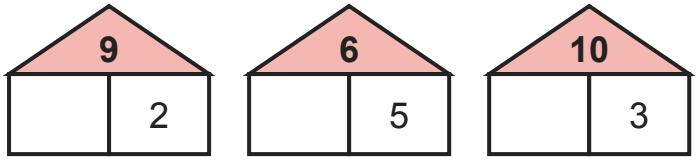

a) Nhà số 9: ô trống là ……

b) Nhà số 6: ô trống là ……

c) Nhà số 10: ô trống là ……

Bài 3. Viết số thích hợp vào chỗ chấm:

a) 5 gồm 2 và ……

b) 5 gồm …… và 1

c) 5 gồm 1 và ……

Bài 4. Cho các số: 0, 5, 7, 6, 1.

a) Số lớn nhất là: ……

b) Số bé nhất là: ……

Bài 5. Số?

a) …… + 5 = 9

b) …… − 4 = 3

c) 9 = 2 + ……

d) 5 = 7 − ……

Bài 6. Có 6 quả bóng bay, các quả bị gạch chéo đã bay mất. Viết phép tính thích hợp với hình rồi trả lời.

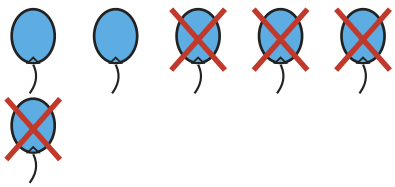

a) Phép tính: …… − …… = ……

b) Còn lại …… quả bóng bay.

HẾT

ĐÁP ÁN VÀ HƯỚNG DẪN CHẤM

Phiếu ôn tập học kì I Toán lớp 1 · Phiếu số 27

Phần 1. Trắc nghiệm

Câu	1	2	3	4	5	6
Đáp án	D	D	C	A	A	B

Phần 2. Tự luận

Bài 1.

a) $4 < 6$

b) $10 = 5 + 5$

c) $0 = 1 - 1$

d) $4 + 2 = 6$

Bài 2.

a) $9 = 7 + 2$

b) $6 = 1 + 5$

c) $10 = 7 + 3$

Bài 3.

a) 5 gồm 2 và 3

b) 5 gồm 4 và 1

c) 5 gồm 1 và 4

Bài 4.

a) Số lớn nhất là 7.

b) Số bé nhất là 0.

Bài 5.

a) $4 + 5 = 9$

b) $7 - 4 = 3$

c) $9 = 2 + 7$

d) $5 = 7 - 2$

Bài 6.

a) $6 - 4 = 2$

b) Còn lại 2 quả bóng bay.