TRƯỜNG TIỂU HỌC ..... *Thứ ..... ngày ..... tháng ..... năm 20.....*

Họ và tên: .....

Lớp: 1 .....

PHIẾU ÔN TẬP HỌC KÌ I
MÔN TOÁN – KHỐI 1
PHIẾU SỐ 28

Thời gian làm bài: 30 phút

PHẦN 1. TRẮC NGHIỆM *(Khoanh vào chữ cái đặt trước câu trả lời đúng)*

Câu 1. Có bao nhiêu củ cà rốt trong hình?



A. 7 **B.** 8 **C.** 5 **D.** 4

Câu 2. Phép tính nào có kết quả bằng 4?

A. 0 + 5 **B.** 8 − 5 **C.** 6 − 4 **D.** 6 − 2

Câu 3. Trong hình dưới đây có bao nhiêu hình tròn?

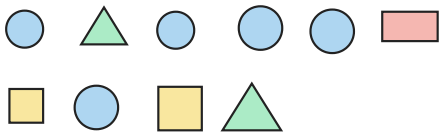

A. 8 **B.** 2 **C.** 3 **D.** 5

Câu 4. Đồ vật nào dưới đây có dạng khối hộp chữ nhật?

A. quả bóng **B.** quyển từ điển

C. khối rubik **D.** quả cam

Câu 5. So sánh số con cá ở hàng trên với số củ cà rốt ở hàng dưới. Số con cá …… số củ cà rốt.



A. bằng **B.** ít hơn **C.** nhiều hơn

Câu 6. Trong các số 5, 6, 8, 7, số lớn nhất là:

A. 6 **B.** 8 **C.** 5 **D.** 7

PHẦN 2. TỰ LUẬN *(Học sinh trình bày lời giải)*

Bài 1. Đúng ghi Đ, sai ghi S:

a) 3 + 7 = 9	
b) 2 − 1 = 1	
c) 8 + 2 = 10	
d) 2 + 1 = 3	

Bài 2. Số? Mỗi ngôi nhà có số trên mái bằng tổng hai số ở hai ô bên dưới.

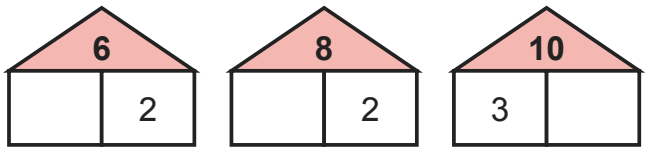

a) Nhà số 6: ô trống là ……

b) Nhà số 8: ô trống là ……

c) Nhà số 10: ô trống là ……

Bài 3. Cho các số: 2, 7, 6, 5, 9.

a) Số lớn nhất là: ……

b) Số bé nhất là: ……

Bài 4. Quan sát hình rồi viết số thích hợp vào chỗ chấm:

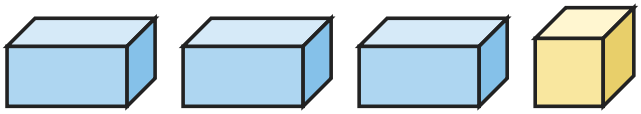

a) Có …… khối lập phương.

b) Có …… khối hộp chữ nhật.

c) Có tất cả …… khối.

Bài 5. Có 7 quả bóng bay, các quả bị gạch chéo đã bay mất. Viết phép tính thích hợp với hình rồi trả lời.

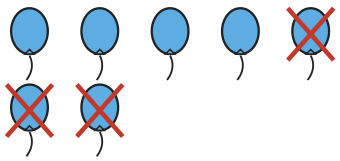

a) Phép tính: …… − …… = ……

b) Còn lại …… quả bóng bay.

Bài 6. Đếm hình:

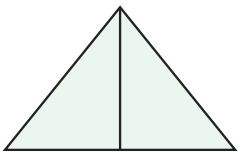

a) Hình bên có …… hình tam giác.

HẾT

ĐÁP ÁN VÀ HƯỚNG DẪN CHẤM

Phiếu ôn tập học kì I Toán lớp 1 · Phiếu số 28

Phần 1. Trắc nghiệm

Câu	1	2	3	4	5	6
Đáp án	C	D	D	B	C	B

Phần 2. Tự luận

Bài 1.

a) S; b) Đ; c) Đ; d) Đ

Bài 2.

a) 6 = 4 + 2

b) 8 = 6 + 2

c) 10 = 3 + 7

Bài 3.

a) Số lớn nhất là 9.

b) Số bé nhất là 2.

Bài 4.

a) Có 1 khối lập phương.

b) Có 3 khối hộp chữ nhật.

c) Có tất cả 1 + 3 = 4 khối.

Bài 5.

a) 7 − 3 = 4

b) Còn lại 4 quả bóng bay.

Bài 6.

Có 2 tam giác nhỏ và 1 tam giác lớn: 3 hình tam giác.