TRƯỜNG TIỂU HỌC ..... *Thứ ..... ngày ..... tháng ..... năm 20.....*

Họ và tên: .....

Lớp: 1 .....

PHIẾU ÔN TẬP HỌC KÌ I
MÔN TOÁN – KHỐI 1
PHIẾU SỐ 29

Thời gian làm bài: 30 phút

PHẦN 1. TRẮC NGHIỆM *(Khoanh vào chữ cái đặt trước câu trả lời đúng)*

Câu 1. Số liền trước của số 4 là:

A. 3 **B.** 1 **C.** 6 **D.** 5

Câu 2. Kết quả của phép tính 9 − 0 là:

A. 9 **B.** 7 **C.** 8 **D.** 10

Câu 3. Trong hình dưới đây có bao nhiêu hình chữ nhật?

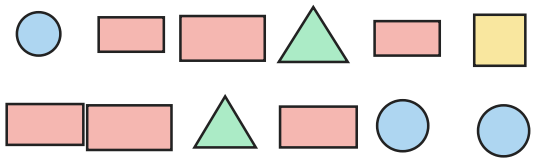

A. 5 **B.** 8 **C.** 6 **D.** 4

Câu 4. So sánh số bông hoa ở hàng trên với số quả táo ở hàng dưới. Số bông hoa …… số quả táo.



A. ít hơn **B.** bằng **C.** nhiều hơn

Câu 5. Ba bạn xếp hàng: Minh đứng sau Lan, Ngọc đứng sau Minh. Bạn nào đứng đầu hàng?

A. Minh **B.** Ngọc **C.** Lan **D.** Yến

Câu 6. Có bao nhiêu số lớn hơn 0 và bé hơn 4?

A. 5 **B.** 6 **C.** 1 **D.** 3

PHẦN 2. TỰ LUẬN *(Học sinh trình bày lời giải)*

Bài 1. Số? Viết số thích hợp vào ô trống theo chiều mũi tên.



a) Ô thứ nhất: ……

b) Ô thứ hai: ……

Bài 2. Viết số thích hợp vào chỗ chấm:

a) 10 gồm 7 và ……

b) 10 gồm …… và 9

c) 10 gồm 2 và ……

Bài 3. Quan sát hình rồi viết số thích hợp vào chỗ chấm:

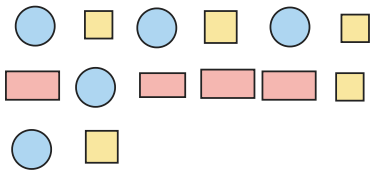

a) Có …… hình tròn.

b) Có …… hình chữ nhật.

c) Có …… hình vuông.

Bài 4. Quan sát hình rồi viết số thích hợp vào chỗ chấm:

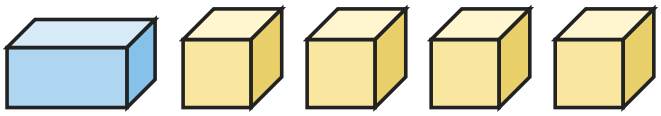

a) Có …… khối lập phương.

b) Có …… khối hộp chữ nhật.

c) Có tất cả …… khối.

Bài 5. Cho các số: 2, 8, 4, 7.

a) Viết các số theo thứ tự từ bé đến lớn: …… ; …… ; …… ; ……

b) Viết các số theo thứ tự từ lớn đến bé: …… ; …… ; …… ; ……

Bài 6. Trên cành có 5 con chim. Có thêm 2 con chim bay đến. Trên cành có tất cả bao nhiêu con chim? Viết số thích hợp vào chỗ chấm.

a) Trả lời: Có tất cả …… con chim.

HẾT

ĐÁP ÁN VÀ HƯỚNG DẪN CHẤM

Phiếu ôn tập học kì I Toán lớp 1 · Phiếu số 29

Phần 1. Trắc nghiệm

Câu	1	2	3	4	5	6
Đáp án	A	A	C	C	C	D

Phần 2. Tự luận

Bài 1.

8 − 3 = 5; 5 + 5 = 10.

Bài 2.

a) 10 gồm 7 và 3

b) 10 gồm 1 và 9

c) 10 gồm 2 và 8

Bài 3.

a) Có 5 hình tròn.

b) Có 4 hình chữ nhật.

c) Có 5 hình vuông.

Bài 4.

a) Có 4 khối lập phương.

b) Có 1 khối hộp chữ nhật.

c) Có tất cả 4 + 1 = 5 khối.

Bài 5.

a) Từ bé đến lớn: 2, 4, 7, 8.

b) Từ lớn đến bé: 8, 7, 4, 2.

Bài 6.

Phép tính: 5 + 2 = 7 (hoặc 2 + 5 = 7). Trả lời: 7 con chim.