TRƯỜNG TIỂU HỌC ..... *Thứ ..... ngày ..... tháng ..... năm 20.....*

Họ và tên: .....

Lớp: 1 .....

PHIẾU ÔN TẬP HỌC KÌ I
MÔN TOÁN – KHỐI 1
PHIẾU SỐ 31

Thời gian làm bài: 30 phút

PHẦN 1. TRẮC NGHIỆM *(Khoanh vào chữ cái đặt trước câu trả lời đúng)*

Câu 1. Số 5 gồm 3 và mấy?

A. 4 **B.** 5 **C.** 2 **D.** 1

Câu 2. Kết quả của phép tính 8 − 8 là:

A. 2 **B.** 0 **C.** 3 **D.** 1

Câu 3. Trong hình dưới đây có bao nhiêu hình vuông?

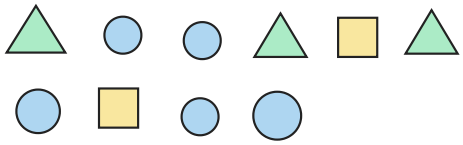

A. 2 **B.** 1 **C.** 5 **D.** 3

Câu 4. Nhìn hình dưới đây, hình ở ngay bên trái hình chữ nhật là hình nào?



A. Hình vuông **B.** Hình tam giác

C. Hình tròn **D.** Hình chữ nhật

Câu 5. Quyển sách ở dưới cái bàn. Vậy cái bàn ở đâu so với quyển sách?

A. ở bên trái **B.** ở trên **C.** ở bên phải **D.** ở dưới

Câu 6. Đồ vật nào dưới đây có dạng khối hộp chữ nhật?

A. hộp quà hình lập phương **B.** quả bóng

C. quyển từ điển **D.** cái nón lá

PHẦN 2. TỰ LUẬN *(Học sinh trình bày lời giải)*

Bài 1. Số? Viết số thích hợp vào ô trống theo chiều mũi tên.



a) Ô thứ nhất: ……

b) Ô thứ hai: ……

Bài 2. Số? Mỗi ngôi nhà có số trên mái bằng tổng hai số ở hai ô bên dưới.

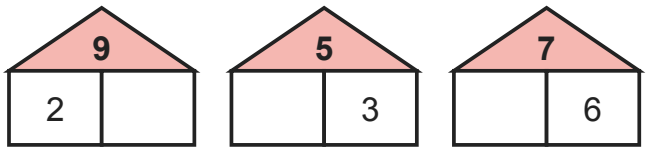

a) Nhà số 9: ô trống là ……

b) Nhà số 5: ô trống là ……

c) Nhà số 7: ô trống là ……

Bài 3. Cho các số: 10, 0, 5, 8, 3.

a) Số lớn nhất là: ……

b) Số bé nhất là: ……

Bài 4. Đúng ghi Đ, sai ghi S:

a) 8 − 5 = 3	
b) 9 − 0 = 9	
c) 3 − 0 = 3	
d) 6 − 6 = 2	

Bài 5. Có 10 quả bóng bay, các quả bị gạch chéo đã bay mất. Viết phép tính thích hợp với hình rồi trả lời.

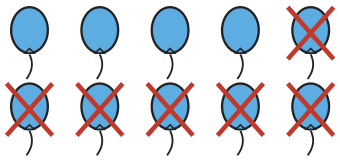

a) Phép tính: …… − …… = ……

b) Còn lại …… quả bóng bay.

Bài 6. Đếm hình:

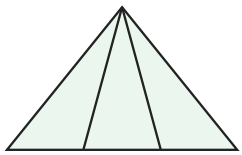

a) Hình bên có …… hình tam giác.

HẾT

ĐÁP ÁN VÀ HƯỚNG DẪN CHẤM

Phiếu ôn tập học kì I Toán lớp 1 · Phiếu số 31

Phần 1. Trắc nghiệm

Câu	1	2	3	4	5	6
Đáp án	C	B	A	A	B	C

Phần 2. Tự luận

Bài 1.

5 − 4 = 1; 1 + 5 = 6.

Bài 2.

a) 9 = 2 + 7

b) 5 = 2 + 3

c) 7 = 1 + 6

Bài 3.

a) Số lớn nhất là 10.

b) Số bé nhất là 0.

Bài 4.

a) Đ; b) Đ; c) Đ; d) S

Bài 5.

a) 10 − 6 = 4

b) Còn lại 4 quả bóng bay.

Bài 6.

Có 3 tam giác nhỏ, 2 tam giác ghép từ 2 hình nhỏ và 1 tam giác lớn: 6 hình tam giác.