TRƯỜNG TIỂU HỌC ..... *Thứ ..... ngày ..... tháng ..... năm 20.....*

Họ và tên: .....

Lớp: 1 .....

PHIẾU ÔN TẬP HỌC KÌ I
MÔN TOÁN – KHỐI 1
PHIẾU SỐ 32

Thời gian làm bài: 30 phút

PHẦN 1. TRẮC NGHIỆM *(Khoanh vào chữ cái đặt trước câu trả lời đúng)*

Câu 1. So sánh số quả táo ở hàng trên với số củ cà rốt ở hàng dưới. Số quả táo …… số củ cà rốt.



A. nhiều hơn **B.** ít hơn **C.** bằng

Câu 2. Phép tính nào có kết quả lớn nhất?

A. 8 + 2 **B.** 6 − 4 **C.** 2 + 2 **D.** 5 + 3

Câu 3. Hình nào dưới đây là hình tròn?

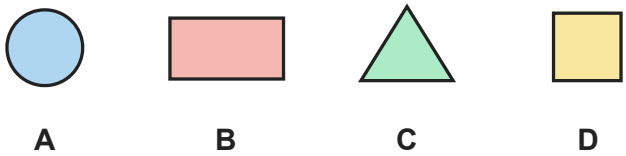

A. Hình A **B.** Hình B **C.** Hình C **D.** Hình D

Câu 4. Lọ hoa ở dưới cái tủ. Vậy cái tủ ở đâu so với lọ hoa?

A. ở bên trái **B.** ở trên **C.** ở bên phải **D.** ở dưới

Câu 5. Số thích hợp điền vào chỗ chấm: 9 + …… = 10

A. 2 **B.** 1 **C.** 4 **D.** 0

Câu 6. Phép tính nào có kết quả bằng 3?

A. 4 − 2 **B.** 3 + 0 **C.** 6 − 2 **D.** 7 − 1

PHẦN 2. TỰ LUẬN *(Học sinh trình bày lời giải)*

Bài 1. Tính:

a) 2 + 4 + 1 = ……

b) 6 − 4 − 2 = ……

c) 8 − 6 − 1 = ……

d) 2 + 1 − 1 = ……

Bài 2. Viết số thích hợp vào chỗ chấm:

a) 0, 2, ……, 6, 8, ……

b) 5, ……, 3, 2, 1, ……

Bài 3. Đúng ghi Đ, sai ghi S:

a) 3 + 3 = 7	
b) 1 − 0 = 1	
c) 5 − 4 = 1	
d) 2 + 6 = 9	

Bài 4. Quan sát hình rồi viết số thích hợp vào chỗ chấm:

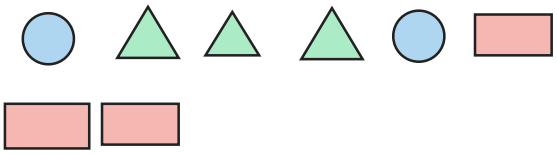

a) Có …… hình tròn.

b) Có …… hình tam giác.

c) Có …… hình chữ nhật.

Bài 5. Quan sát hình rồi viết số thích hợp vào chỗ chấm:

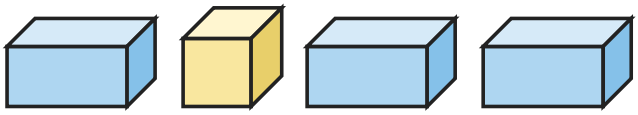

a) Có …… khối lập phương.

b) Có …… khối hộp chữ nhật.

c) Có tất cả …… khối.

Bài 6. Có 6 quả bóng bay, các quả bị gạch chéo đã bay mất. Viết phép tính thích hợp với hình rồi trả lời.

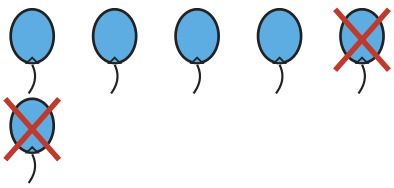

a) Phép tính: …… − …… = ……

b) Còn lại …… quả bóng bay.

HẾT

ĐÁP ÁN VÀ HƯỚNG DẪN CHẤM

Phiếu ôn tập học kì I Toán lớp 1 · Phiếu số 32

Phần 1. Trắc nghiệm

Câu	1	2	3	4	5	6
Đáp án	A	A	A	B	B	B

Phần 2. Tự luận

Bài 1.

a) $2 + 4 + 1 = 7$

b) $6 - 4 - 2 = 0$

c) $8 - 6 - 1 = 1$

d) $2 + 1 - 1 = 2$

Bài 2.

a) 0, 2, 4, 6, 8, 10

b) 5, 4, 3, 2, 1, 0

Bài 3.

a) S; b) Đ; c) Đ; d) S

Bài 4.

a) Có 2 hình tròn.

b) Có 3 hình tam giác.

c) Có 3 hình chữ nhật.

Bài 5.

a) Có 1 khối lập phương.

b) Có 3 khối hộp chữ nhật.

c) Có tất cả $1 + 3 = 4$ khối.

Bài 6.

a) $6 - 2 = 4$

b) Còn lại 4 quả bóng bay.