TRƯỜNG TIỂU HỌC ..... *Thứ ..... ngày ..... tháng ..... năm 20.....*

Họ và tên: .....

Lớp: 1 .....

PHIẾU ÔN TẬP HỌC KÌ I
MÔN TOÁN – KHỐI 1
PHIẾU SỐ 33

Thời gian làm bài: 30 phút

PHẦN 1. TRẮC NGHIỆM *(Khoanh vào chữ cái đặt trước câu trả lời đúng)*

Câu 1. Có bao nhiêu bông hoa trong hình?



A. 10 **B.** 8 **C.** 6 **D.** 5

Câu 2. Kết quả của phép tính 2 − 0 là:

A. 2 **B.** 4 **C.** 1 **D.** 0

Câu 3. Trong hình dưới đây có bao nhiêu hình tròn?

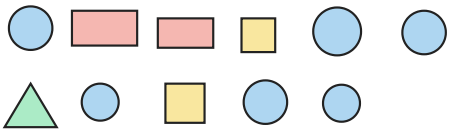

A. 8 **B.** 6 **C.** 5 **D.** 9

Câu 4. Trong hình dưới đây có bao nhiêu khối lập phương?

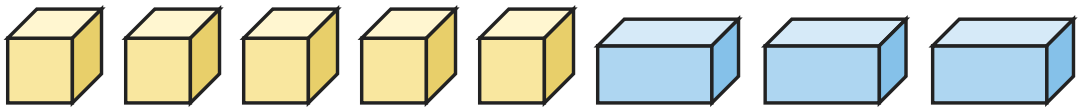

A. 7 **B.** 8 **C.** 3 **D.** 5

Câu 5. Trong hình dưới đây, hình nào ở giữa?



A. Hình chữ nhật **B.** Hình tam giác

C. Hình tròn **D.** Hình vuông

Câu 6. Khôi có 2 quả bóng. Mẹ mua cho Khôi thêm 5 quả bóng. Bây giờ Khôi có bao nhiêu quả bóng?

A. 9 quả bóng **B.** 7 quả bóng **C.** 5 quả bóng **D.** 6 quả bóng

PHẦN 2. TỰ LUẬN *(Học sinh trình bày lời giải)*

Bài 1. Điền dấu >, <, = thích hợp vào chỗ chấm:

a) 1 ……. 0

b) 8 + 1 ……. 8

c) 2 ……. 3 − 1

d) 10 − 8 ……. 1

Bài 2. Số? Mỗi ngôi nhà có số trên mái bằng tổng hai số ở hai ô bên dưới.

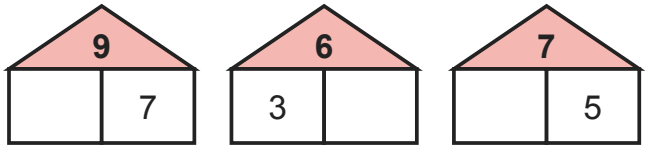

a) Nhà số 9: ô trống là …….

b) Nhà số 6: ô trống là …….

c) Nhà số 7: ô trống là …….

Bài 3. Tính:

a) 2 + 3 − 5 = …….

b) 5 + 1 + 2 = …….

c) 1 + 3 − 1 = …….

d) 4 + 2 + 3 = …….

Bài 4. Viết số thích hợp vào chỗ chấm:

a) 10, 8, ……, 4, 2, …….

b) 0, 2, 4, ……, ……, 10

Bài 5. Đúng ghi Đ, sai ghi S:

a) 2 − 1 = 3	
b) 9 + 1 = 10	
c) 2 + 1 = 5	
d) 3 − 2 = 1	

Bài 6. Có 8 quả bóng bay, các quả bị gạch chéo đã bay mất. Viết phép tính thích hợp với hình rồi trả lời.

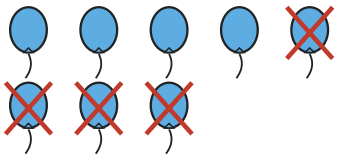

a) Phép tính: ……. − ……. = …….

b) Còn lại ……. quả bóng bay.

HẾT

ĐÁP ÁN VÀ HƯỚNG DẪN CHẤM

Phiếu ôn tập học kì I Toán lớp 1 · Phiếu số 33

Phần 1. Trắc nghiệm

Câu	1	2	3	4	5	6
Đáp án	B	A	B	D	A	B

Phần 2. Tự luận

Bài 1.

a) $1 > 0$

b) $8 + 1 > 8$

c) $2 = 3 - 1$

d) $10 - 8 > 1$

Bài 2.

a) $9 = 2 + 7$

b) $6 = 3 + 3$

c) $7 = 2 + 5$

Bài 3.

a) $2 + 3 - 5 = 0$

b) $5 + 1 + 2 = 8$

c) $1 + 3 - 1 = 3$

d) $4 + 2 + 3 = 9$

Bài 4.

a) 10, 8, 6, 4, 2, 0

b) 0, 2, 4, 6, 8, 10

Bài 5.

a) S; b) Đ; c) S; d) Đ

Bài 6.

a) $8 - 4 = 4$

b) Còn lại 4 quả bóng bay.