TRƯỜNG TIỂU HỌC ..... *Thứ ..... ngày ..... tháng ..... năm 20.....*

Họ và tên: .....

Lớp: 1 .....

PHIẾU ÔN TẬP HỌC KÌ I
MÔN TOÁN – KHỐI 1
PHIẾU SỐ 35

Thời gian làm bài: 30 phút

PHẦN 1. TRẮC NGHIỆM *(Khoanh vào chữ cái đặt trước câu trả lời đúng)*

Câu 1. Các số 2, 4, 8, 7 được sắp xếp theo thứ tự từ lớn đến bé là:

A. 4, 7, 8, 2 **B.** 8, 4, 7, 2 **C.** 7, 2, 4, 8 **D.** 8, 7, 4, 2

Câu 2. Dấu thích hợp điền vào chỗ chấm: 6 ..... 2 + 6

A. < **B.** = **C.** >

Câu 3. Trong hình dưới đây có bao nhiêu hình tròn?

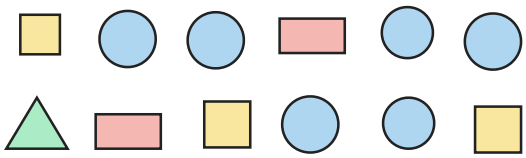

A. 4 **B.** 9 **C.** 6 **D.** 5

Câu 4. Trong hình dưới đây có bao nhiêu khối lập phương?

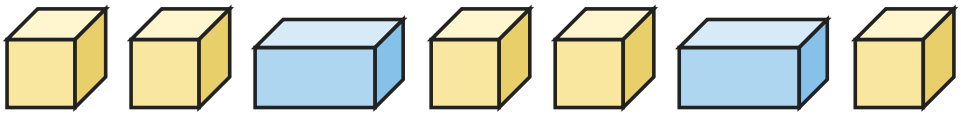

A. 8 **B.** 4 **C.** 5 **D.** 3

Câu 5. Phép tính nào có kết quả bằng 7?

A. 5 − 1 **B.** 2 + 3 **C.** 4 + 3 **D.** 3 + 1

Câu 6. Số liền sau của số 2 là:

A. 0 **B.** 2 **C.** 3 **D.** 6

PHẦN 2. TỰ LUẬN *(Học sinh trình bày lời giải)*

Bài 1. Tính nhẩm:

a) 8 − 0 = ...

b) 1 − 1 = ...

c) 6 + 2 = ...

d) 9 + 1 = ...

Bài 2. Cho các số: 8, 7, 10, 0.

a) Viết các số theo thứ tự từ bé đến lớn: …… ; …… ; …… ; ……

b) Viết các số theo thứ tự từ lớn đến bé: …… ; …… ; …… ; ……

Bài 3. Tính:

a) 1 + 6 − 7 = ……

b) 9 − 2 − 5 = ……

c) 10 − 3 − 2 = ……

d) 5 + 1 − 6 = ……

Bài 4. Số? Mỗi ngôi nhà có số trên mái bằng tổng hai số ở hai ô bên dưới.

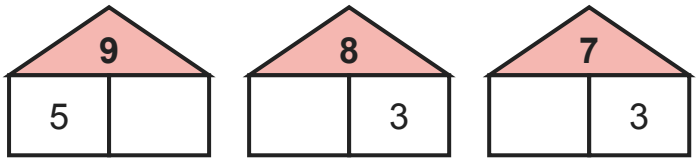

a) Nhà số 9: ô trống là ……

b) Nhà số 8: ô trống là ……

c) Nhà số 7: ô trống là ……

Bài 5. Số?

a) 1 − …… = 1

b) …… + 4 = 10

c) 10 = 7 + ……

d) …… − 1 = 2

Bài 6. An có 4 cái kẹo. An cho em 2 cái kẹo. An còn lại bao nhiêu cái kẹo?

a) Phép tính: …… − …… = ……

b) Trả lời: Còn lại …… cái kẹo.

HẾT

ĐÁP ÁN VÀ HƯỚNG DẪN CHẤM

Phiếu ôn tập học kì I Toán lớp 1 · Phiếu số 35

Phần 1. Trắc nghiệm

Câu	1	2	3	4	5	6
Đáp án	D	A	C	C	C	C

Phần 2. Tự luận

Bài 1.

a) $8 - 0 = 8$

b) $1 - 1 = 0$

c) $6 + 2 = 8$

d) $9 + 1 = 10$

Bài 2.

a) Từ bé đến lớn: 0, 7, 8, 10.

b) Từ lớn đến bé: 10, 8, 7, 0.

Bài 3.

a) $1 + 6 - 7 = 0$

b) $9 - 2 - 5 = 2$

c) $10 - 3 - 2 = 5$

d) $5 + 1 - 6 = 0$

Bài 4.

a) $9 = 5 + 4$

b) $8 = 5 + 3$

c) $7 = 4 + 3$

Bài 5.

a) $1 - 0 = 1$

b) $6 + 4 = 10$

c) $10 = 7 + 3$

d) $3 - 1 = 2$

Bài 6.

a) $4 - 2 = 2$

b) Còn lại 2 cái kẹo.