TRƯỜNG TIỂU HỌC ..... *Thứ ..... ngày ..... tháng ..... năm 20.....*

Họ và tên: .....

Lớp: 1 .....

PHIẾU ÔN TẬP HỌC KÌ I
MÔN TOÁN – KHỐI 1
PHIẾU SỐ 41

Thời gian làm bài: 30 phút

PHẦN 1. TRẮC NGHIỆM *(Khoanh vào chữ cái đặt trước câu trả lời đúng)*

Câu 1. So sánh số củ cà rốt ở hàng trên với số con cá ở hàng dưới. Số củ cà rốt …… số con cá.



A. bằng **B.** ít hơn **C.** nhiều hơn

Câu 2. Kết quả của phép tính 5 + 4 là:

A. 8 **B.** 7 **C.** 9 **D.** 10

Câu 3. Hình nào dưới đây là hình vuông?

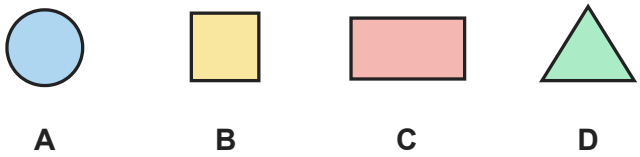

A. Hình A **B.** Hình B **C.** Hình C **D.** Hình D

Câu 4. Số thích hợp điền tiếp vào dãy số: 6, 5, 4, 3, …… là:

A. 2 **B.** 1 **C.** 0 **D.** 3

Câu 5. Trong hình dưới đây có bao nhiêu khối lập phương?

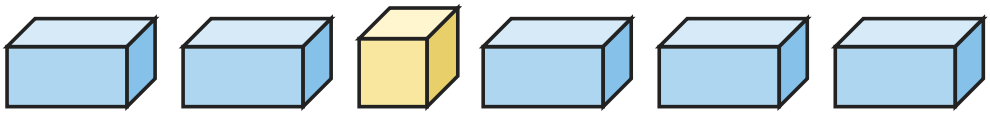

A. 2 **B.** 0 **C.** 1 **D.** 4

Câu 6. Dấu thích hợp điền vào chỗ chấm: 6 + 3 …… 10

A. < **B.** > **C.** =

PHẦN 2. TỰ LUẬN *(Học sinh trình bày lời giải)*

Bài 1. Số?

a) 5 = 9 − ……

b) 10 = 9 + ……

c) 7 = 5 + ……

d) …… − 0 = 6

Bài 2. Cho các số: 0, 10, 4, 8.

a) Viết các số theo thứ tự từ bé đến lớn: …… ; …… ; …… ; ……

b) Viết các số theo thứ tự từ lớn đến bé: …… ; …… ; …… ; ……

Bài 3. Đúng ghi Đ, sai ghi S:

a) 5 + 5 = 10	
b) 4 + 6 = 10	
c) 3 − 2 = 1	
d) 9 − 1 = 9	

Bài 4. Số? Viết số thích hợp vào ô trống theo chiều mũi tên.



a) Ô thứ nhất: ……

b) Ô thứ hai: ……

Bài 5. Tính nhẩm:

a) 6 + 2 = ……

b) 2 + 1 = ……

c) 6 − 5 = ……

d) 1 − 1 = ……

Bài 6. Có 8 quả bóng bay, các quả bị gạch chéo đã bay mất. Viết phép tính thích hợp với hình rồi trả lời.

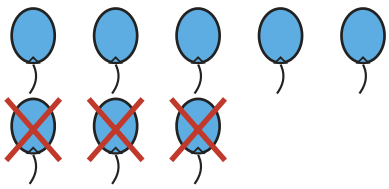

a) Phép tính: …… − …… = ……

b) Còn lại …… quả bóng bay.

HẾT

ĐÁP ÁN VÀ HƯỚNG DẪN CHẤM

Phiếu ôn tập học kì I Toán lớp 1 · Phiếu số 41

Phần 1. Trắc nghiệm

Câu	1	2	3	4	5	6
Đáp án	C	C	B	A	C	A

Phần 2. Tự luận

Bài 1.

a) $5 = 9 - 4$

b) $10 = 9 + 1$

c) $7 = 5 + 2$

d) $6 - 0 = 6$

Bài 2.

a) Từ bé đến lớn: 0, 4, 8, 10.

b) Từ lớn đến bé: 10, 8, 4, 0.

Bài 3.

a) Đ; b) Đ; c) Đ; d) S

Bài 4.

$7 + 2 = 9$; $9 + 1 = 10$.

Bài 5.

a) $6 + 2 = 8$

b) $2 + 1 = 3$

c) $6 - 5 = 1$

d) $1 - 1 = 0$

Bài 6.

a) $8 - 3 = 5$

b) Còn lại 5 quả bóng bay.