TRƯỜNG TIỂU HỌC ..... *Thứ ..... ngày ..... tháng ..... năm 20.....*

Họ và tên: .....

Lớp: 1 .....

PHIẾU ÔN TẬP HỌC KÌ I
MÔN TOÁN – KHỐI 1
PHIẾU SỐ 44

Thời gian làm bài: 30 phút

PHẦN 1. TRẮC NGHIỆM *(Khoanh vào chữ cái đặt trước câu trả lời đúng)*

Câu 1. Số liền trước của số 7 là:

A. 9 **B.** 4 **C.** 3 **D.** 6

Câu 2. Phép tính nào có kết quả bé nhất?

A. 5 − 1 **B.** 2 − 1 **C.** 6 + 3 **D.** 4 − 2

Câu 3. Trong hình dưới đây có bao nhiêu hình chữ nhật?

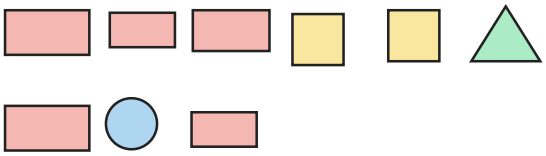

A. 5 **B.** 6 **C.** 3 **D.** 2

Câu 4. Trong hình dưới đây có bao nhiêu khối hộp chữ nhật?

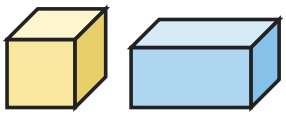

A. 3 **B.** 1 **C.** 4 **D.** 0

Câu 5. Kết quả của phép tính 4 + 1 + 4 là:

A. 9 **B.** 6 **C.** 7 **D.** 10

Câu 6. Các số 1, 6, 0, 9 được sắp xếp theo thứ tự từ lớn đến bé là:

A. 9, 6, 1, 0 **B.** 6, 0, 9, 1 **C.** 0, 6, 1, 9 **D.** 6, 1, 9, 0

PHẦN 2. TỰ LUẬN *(Học sinh trình bày lời giải)*

Bài 1. Điền dấu >, <, = thích hợp vào chỗ chấm:

a) 1 ……. 9

b) 1 ……. 2 − 2

c) 8 ……. 4 + 3

d) 4 + 1 ……. 6

Bài 2. Số? Mỗi ngôi nhà có số trên mái bằng tổng hai số ở hai ô bên dưới.

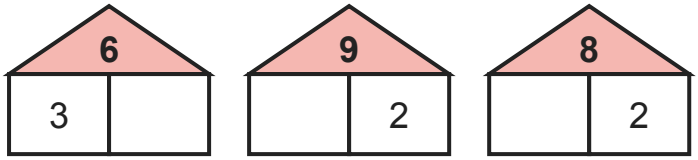

a) Nhà số 6: ô trống là ……

b) Nhà số 9: ô trống là ……

c) Nhà số 8: ô trống là ……

Bài 3. Cho các số: 1, 7, 8, 9, 4.

a) Số lớn nhất là: ……

b) Số bé nhất là: ……

Bài 4. Quan sát hình rồi viết số thích hợp vào chỗ chấm:

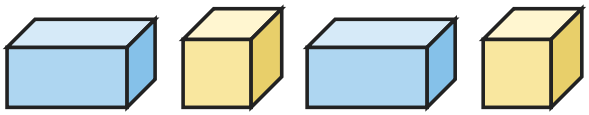

a) Có …… khối lập phương.

b) Có …… khối hộp chữ nhật.

c) Có tất cả …… khối.

Bài 5. Viết số thích hợp vào chỗ chấm:

a) 6 gồm 1 và ……

b) 6 gồm …… và 4

c) 6 gồm 3 và ……

Bài 6. Khôi có 5 cái kẹo. Chị cho Khôi thêm 5 cái kẹo. Khôi có tất cả bao nhiêu cái kẹo? Viết số thích hợp vào chỗ chấm.

a) Trả lời: Có tất cả …… cái kẹo.

HẾT

ĐÁP ÁN VÀ HƯỚNG DẪN CHẤM

Phiếu ôn tập học kì I Toán lớp 1 · Phiếu số 44

Phần 1. Trắc nghiệm

Câu	1	2	3	4	5	6
Đáp án	D	B	A	B	A	A

Phần 2. Tự luận

Bài 1.

a) $1 < 9$

b) $1 > 2 - 2$

c) $8 > 4 + 3$

d) $4 + 1 < 6$

Bài 2.

a) $6 = 3 + 3$

b) $9 = 7 + 2$

c) $8 = 6 + 2$

Bài 3.

a) Số lớn nhất là 9.

b) Số bé nhất là 1.

Bài 4.

a) Có 2 khối lập phương.

b) Có 2 khối hộp chữ nhật.

c) Có tất cả $2 + 2 = 4$ khối.

Bài 5.

a) 6 gồm 1 và 5

b) 6 gồm 2 và 4

c) 6 gồm 3 và 3

Bài 6.

Phép tính: $5 + 5 = 10$ (hoặc $5 + 5 = 10$). Trả lời: 10 cái kẹo.