TRƯỜNG TIỂU HỌC ..... *Thứ ..... ngày ..... tháng ..... năm 20.....*

Họ và tên: .....

Lớp: 1 .....

PHIẾU ÔN TẬP HỌC KÌ I
MÔN TOÁN – KHỐI 1
PHIẾU SỐ 45

Thời gian làm bài: 30 phút

PHẦN 1. TRẮC NGHIỆM *(Khoanh vào chữ cái đặt trước câu trả lời đúng)*

Câu 1. Số 9 gồm 2 và mấy?

A. 7 **B.** 10 **C.** 5 **D.** 8

Câu 2. Số thích hợp điền vào chỗ chấm: 1 − ……. = 0

A. 3 **B.** 1 **C.** 0 **D.** 2

Câu 3. Trong hình dưới đây có bao nhiêu hình tam giác?

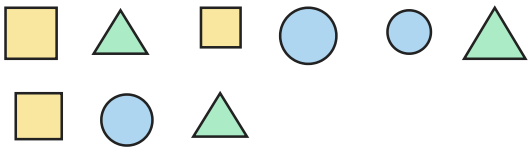

A. 3 **B.** 2 **C.** 0 **D.** 4

Câu 4. Số thích hợp điền tiếp vào dãy số: 10, 9, 8, 7, ……. là:

A. 7 **B.** 9 **C.** 6 **D.** 4

Câu 5. Kết quả của phép tính 3 + 2 − 1 là:

A. 5 **B.** 7 **C.** 2 **D.** 4

Câu 6. Quyển sách ở trên cái bàn. Vậy cái bàn ở đâu so với quyển sách?

A. ở bên phải **B.** ở bên trái **C.** ở trên **D.** ở dưới

PHẦN 2. TỰ LUẬN *(Học sinh trình bày lời giải)*

Bài 1. Đúng ghi Đ, sai ghi S:

a) 6 − 2 = 3	
b) 9 − 2 = 9	
c) 2 + 3 = 5	
d) 2 + 1 = 3	

Bài 2. Viết số thích hợp vào chỗ chấm:

a) 7 gồm 5 và …….

b) 7 gồm ……. và 3

c) 7 gồm 3 và …….

Bài 3. Số? Viết số thích hợp vào ô trống theo chiều mũi tên.



a) Ô thứ nhất: ……

b) Ô thứ hai: ……

Bài 4. Quan sát hình rồi viết số thích hợp vào chỗ chấm:

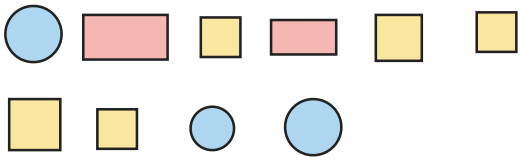

a) Có …… hình tròn.

b) Có …… hình chữ nhật.

c) Có …… hình vuông.

Bài 5. Có 7 quả bóng bay, các quả bị gạch chéo đã bay mất. Viết phép tính thích hợp với hình rồi trả lời.

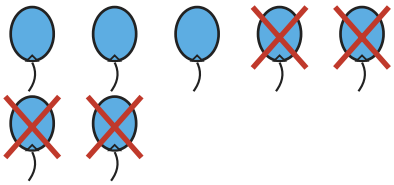

a) Phép tính: …… − …… = ……

b) Còn lại …… quả bóng bay.

Bài 6. Đếm hình:

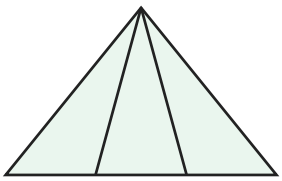

a) Hình bên có …… hình tam giác.

HẾT

ĐÁP ÁN VÀ HƯỚNG DẪN CHẤM

Phiếu ôn tập học kì I Toán lớp 1 · Phiếu số 45

Phần 1. Trắc nghiệm

Câu	1	2	3	4	5	6
Đáp án	A	B	A	C	D	D

Phần 2. Tự luận

Bài 1.

a) S; b) S; c) Đ; d) Đ

Bài 2.

a) 7 gồm 5 và 2

b) 7 gồm 4 và 3

c) 7 gồm 3 và 4

Bài 3.

$5 - 1 = 4$; $4 + 6 = 10$.

Bài 4.

a) Có 3 hình tròn.

b) Có 2 hình chữ nhật.

c) Có 5 hình vuông.

Bài 5.

a) $7 - 4 = 3$

b) Còn lại 3 quả bóng bay.

Bài 6.

Có 3 tam giác nhỏ, 2 tam giác ghép từ 2 hình nhỏ và 1 tam giác lớn: 6 hình tam giác.