TRƯỜNG TIỂU HỌC ..... *Thứ ..... ngày ..... tháng ..... năm 20.....*

Họ và tên: .....

Lớp: 1 .....

PHIẾU ÔN TẬP HỌC KÌ I
MÔN TOÁN – KHỐI 1
PHIẾU SỐ 48

Thời gian làm bài: 30 phút

PHẦN 1. TRẮC NGHIỆM *(Khoanh vào chữ cái đặt trước câu trả lời đúng)*

Câu 1. Có bao nhiêu bông hoa trong hình?



A. 7 **B.** 10 **C.** 6 **D.** 5

Câu 2. Phép tính nào có kết quả lớn nhất?

A. 5 + 1 **B.** 5 + 3 **C.** 3 − 1 **D.** 8 + 2

Câu 3. Hình nào dưới đây là hình tam giác?



A. Hình A **B.** Hình B **C.** Hình C **D.** Hình D

Câu 4. Trong các số 1, 7, 3, 8, số bé nhất là:

A. 8 **B.** 7 **C.** 3 **D.** 1

Câu 5. Con mèo nằm ở dưới cái ghế. Vậy cái ghế ở đâu so với con mèo?

A. ở bên trái **B.** ở dưới **C.** ở bên phải **D.** ở trên

Câu 6. Đồ vật nào dưới đây có dạng khối lập phương?

A. con xúc xắc **B.** quả bóng **C.** cái nón lá **D.** hộp bút

PHẦN 2. TỰ LUẬN *(Học sinh trình bày lời giải)*

Bài 1. Tính nhẩm:

a) 3 + 7 = ……

b) 7 − 3 = ……

c) 10 − 7 = ……

d) 2 + 2 = ……

Bài 2. Số? Mỗi ngôi nhà có số trên mái bằng tổng hai số ở hai ô bên dưới.

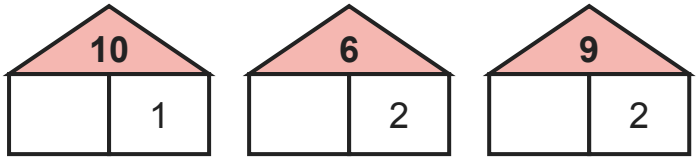

a) Nhà số 10: ô trống là ……

b) Nhà số 6: ô trống là ……

c) Nhà số 9: ô trống là ……

Bài 3. Viết số thích hợp vào chỗ chấm:

a) 8 gồm 5 và ……

b) 8 gồm …… và 2

c) 8 gồm 1 và ……

Bài 4. Số?

a) …… + 3 = 9

b) 4 = 6 − ……

c) 3 + …… = 8

d) 9 + …… = 10

Bài 5. Có 10 quả bóng bay, các quả bị gạch chéo đã bay mất. Viết phép tính thích hợp với hình rồi trả lời.

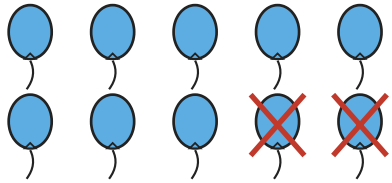

a) Phép tính: …… − …… = ……

b) Còn lại …… quả bóng bay.

Bài 6. Đếm hình:

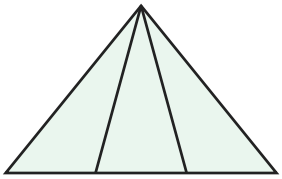

a) Hình bên có …… hình tam giác.

HẾT

ĐÁP ÁN VÀ HƯỚNG DẪN CHẤM

Phiếu ôn tập học kì I Toán lớp 1 · Phiếu số 48

Phần 1. Trắc nghiệm

Câu	1	2	3	4	5	6
Đáp án	A	D	C	D	D	A

Phần 2. Tự luận

Bài 1.

a) $3 + 7 = 10$

b) $7 - 3 = 4$

c) $10 - 7 = 3$

d) $2 + 2 = 4$

Bài 2.

a) $10 = 9 + 1$

b) $6 = 4 + 2$

c) $9 = 7 + 2$

Bài 3.

a) 8 gồm 5 và 3

b) 8 gồm 6 và 2

c) 8 gồm 1 và 7

Bài 4.

a) $6 + 3 = 9$

b) $4 = 6 - 2$

c) $3 + 5 = 8$

d) $9 + 1 = 10$

Bài 5.

a) $10 - 2 = 8$

b) Còn lại 8 quả bóng bay.

Bài 6.

Có 3 tam giác nhỏ, 2 tam giác ghép từ 2 hình nhỏ và 1 tam giác lớn: 6 hình tam giác.